Photofiche*

45

Nom : ..... Date : .....

Je m'exerce

Exercice 2*

Résous ce problème en suivant les étapes du plan de résolution.

Naïm fête son anniversaire avec ses amis. Ils seront 6 enfants à jouer au parc.
Ses parents ont acheté 4 boîtes de biscuits. Chaque boîte contient 30 biscuits.
Tous les enfants mangent le même nombre de biscuits.

Combien de biscuits chaque enfant mange-t-il ?

Pour t'aider, utilise la photofiche « Résoudre un problème à 2 étapes » (**annexe 5**).

Indice 1

30 biscuits

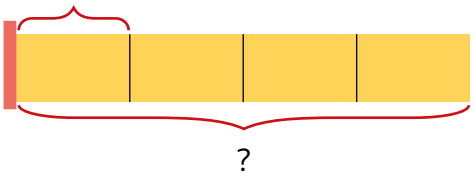

Mes calculs pour la 1re étape.

Indice 2

6 enfants

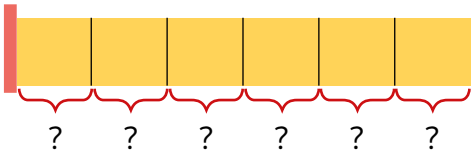

Mes calculs pour la 2e étape.

Ma phrase-réponse.

© Hachette Livre 2019 – Modélisation – Reproduction autorisée pour une classe seulement.

Photofiche*

45

Nom : ..... Date : .....

Je m'exerce (suite)

Exercice 3*

Résous ce problème en suivant les étapes du plan de résolution.

Le mont Bego et le mont Blanc sont 2 hauts sommets des Alpes françaises.
À eux 2, ils mesurent 7 682 mètres.
Le mont Blanc culmine à 4 810 mètres d'altitude.

Quelle est la différence d'altitude entre ces 2 monts ?

Pour t'aider, utilise la photofiche « Résoudre un problème à 2 étapes » (**annexe 5**).

Indice 1

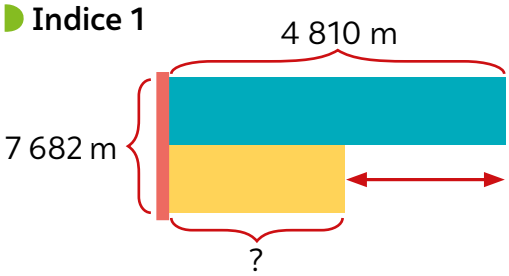

Mes calculs pour la 1re étape.

Indice 2

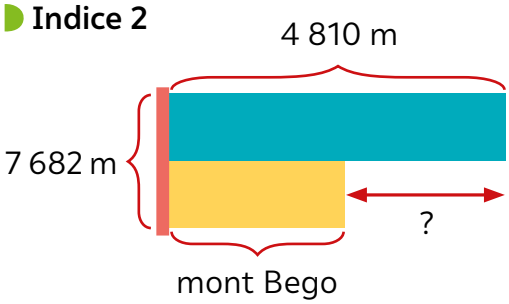

Mes calculs pour la 2e étape.

Ma phrase-réponse.

© Hachette Livre 2019 – Modélisation – Reproduction autorisée pour une classe seulement.