Photofiche*

20

Nom : ..... Date : .....

Je pose la question qui correspond à un énoncé et à un Modèle en Barres (MeB)

Exercice 1*

1 **Lis cet énoncé.**

Un ballon de basket pèse 624 grammes.
Un ballon de football pèse 450 grammes.



2 **Observe chaque Modèle en Barres (MeB), puis écris une question qui lui correspond.**

Modèle en Barres (MeB) 1

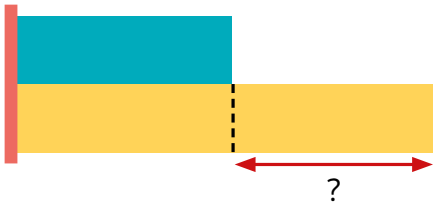

problème « **de plus** »

Combien

Modèle en Barres (MeB) 2

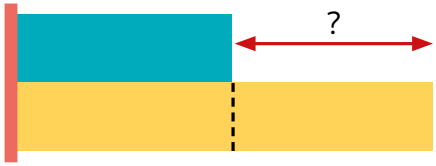

problème « **de moins** »

Combien

Exercice 2*

1 **Relis l'énoncé, puis écris une question qui lui correspond avec le mot « différence ».**

Quelle est la différence de masse entre

2 **À quel Modèle en Barres (MeB) ce problème correspond-il ?**

.....

© Hachette Livre 2019 – Modélisation – Reproduction autorisée pour une classe seulement.