Photofiche 12

Nom : ..... Date : .....

Je pose la question qui correspond à un énoncé et à un Modèle en Barres (MeB)

Pour chaque problème, lis l'énoncé et observe son Modèle en Barres (MeB).
Puis, écris la question qui lui correspond.

Problème 1

Mei assiste à une compétition de basket-ball.
152 paniers sont marqués en tout.
L'équipe gagnante a marqué 98 paniers.

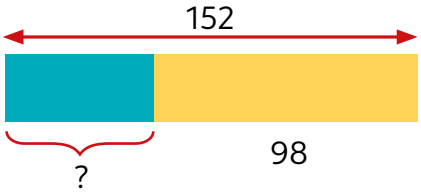

Problème 2

Pour aller de la maison à l'école, il faut parcourir 257 mètres en tout.
Il faut passer devant une boulangerie qui se situe à 98 mètres de la maison.

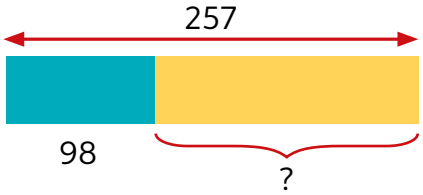

Problème 3

Un train de passagers prend 239 personnes à la première station.
À la deuxième station, il en prend 362.

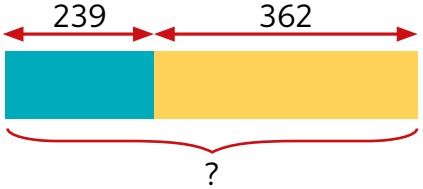

© Hachette Livre 2019 – Modélisation – Reproduction autorisée pour une classe seulement.